متوسطة : خليفي التهامي عبد الرشيد	سلمت يوم الأحد 18-10-2015
الوظيفة المنزلية (01) للثلاثي الأول	تعاد يوم الخميس 22-10-2015
مادة: الرياضيات	القسم : 1م4

https://prof27math.weebly.com/

الجزء الأول :

التمرين الأول :

1. أعط الكتابة العشرية لكل من العبارات الآتية:

- ثلاثة و عشرون جزءا من مئة ، $2,3+\frac{7}{10}$
- أنا عدد عشري، رقم أحادي هو 3 و رقم أجزاء العشرات ضعف رقم أجزاء المئات. (يوجد عدّة حلول)، ما هو هذا العدد ؟

2. أكمل الفراغات :

$643 \times 0.01 = ...$, $18.09 \times ..... = 1809$

$27.15 \times 0.1 = ...$, $0.03 \times ..... = 0.3$

$51.3 \div 0.001 = ...$, $72.6 \div ..... = 0.726$

3. أكمل ما يلي:

$534,09 = (5 \times ....) + (3 \times ....) + (4 \times ....) + (9 \times ....)$

$76,12 = (7 \times ....) + (6 \times ....) + (1 \times ....) + (2 \times ....)$

التمرين الثاني :

أ) أنجز عموديا القسمات التالية :

$68,4 \div 5$, $39 \div 12$

ب) أعد رسم المستقيم المدرج التالي على ورقة الإجابة

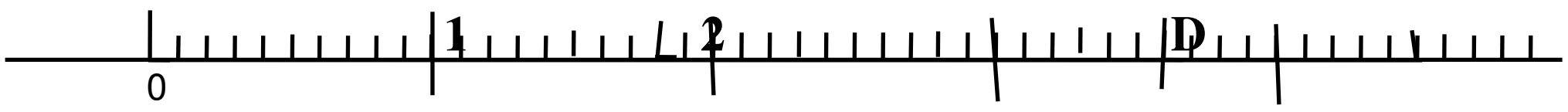

1) اقرأ فاصلة النقطة D   2) علم النقطتين B (0.8)، C (1.5)   3) أنشئ النقطة A منتصف القطعة [BD] ثم اقرأ فاصلتها.

الجزء الثاني

التمرين الأول :

إليك الشكل المقابل:



0) أرسم على الشكل المقابل:

- المستقيم (AB).
- نصف المستقيم [DB).
- قطعة المستقيم [BC].
- الدائرة (F) التي مركزها C و تشمل النقطة B.

1) ضع مكان النقط أحد الرمزين ∈ أو ∉:

D....[DB) ، B....(F) ، A....[BC] ، C....(F)

تقديم الورقة: -اكتب بخط مقروء – تجنب التشطيب– الأشكال الهندسية دقيقة و نظيفة

(1+ منهجية التحرير+نظافة الورقة)

belhocine : https://prof27math.weebly.com

https://prof27math.weebly.com/

الإجابة النموذجية وسلم التنقيط للوظيفة المنزلية (01) للثلاثي الأول

أعطيت يوم **الأحد 18-10-2015**، أستلمت يوم **الخميس 22-10-2015**

محاور الموضوع	عناصر الإجابة	العلامة: مجزأة	العلامة: المجموع
	الجـــــــــزء الأول		

التمرين الأول (المجموع: 8)

1. إعطاء الكتابة العشرية لكل من العبارات الآتية:

- **ثلاثة و عشرون جزءا من مئة :** $0{,}23$ — 1
- $2{,}3+\frac{7}{10}=2{,}3+0{,}7=3$ — 1
- **أنا عدد عشري، رقم أحادي هو 3 و رقم أجزاء العشرات ضعف رقم أجزاء المئات.**
  ، هذا العدد هو : $3{,}84$ **(يوجد عدّة حلول)** — 1

2. أكمل الفراغات :

$643\times 0.01=6{,}43$, $18.09\times 100=1809$ — 1

$27.15\times 0.1=2{,}715$, $0.03\times 10=0.3$ — 1

$51.3\div 0.001=51300$, $72.6\div 100=0.726$ — 1

3. أكمل ما يلي:

$534{,}09=(5\times 100)+(3\times 10)+(4\times 1)+(9\times 0{,}01)$ — 1

$76{,}12=(7\times 10)+(6\times 1)+(1\times 0{,}1)+(2\times 0{,}01)$ — 1

التمرين الثاني (المجموع: 7)

أ) إنجاز عموديا القسمات التالية :

$68{,}4\div 5$, $39\div 12$ — 1 ، 1

$68{,}4\div 5$	$39\div 12$
6 8. 4 0 ÷ 5 = 1 3. 6 8	3 9. 0 0 ÷ 1 2 = 3. 2 5
- 5	- 3 6
1 8	3 0
- 1 5	- 2 4
3 4	6 0
- 3 0	- 6 0
4 0	0
- 4 0	
0	

ب) رسم المستقيم المدرج — 3

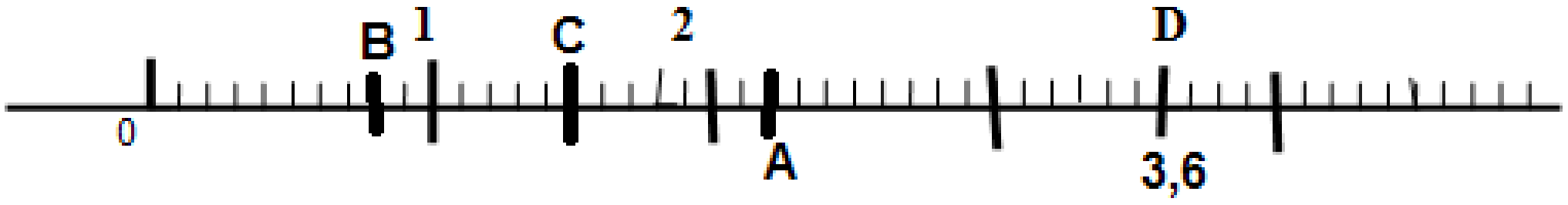

1) اقرأ فاصلة النقطة D(3,6) — 1

3) فاصلة النقطة . A(2,2) — 1

المجموع	مجزأة	**الجـــــــــزء الثـــــــــاني**

أســــتاذ المـــــادة: زروالي م

belhocine : https://prof27math.weebly.com

https://prof27math.weebly.com/

التمرين الأول

التمرين	الإجابة	التنقيط	المجموع
التمرين الأول	1) رسم الشكل 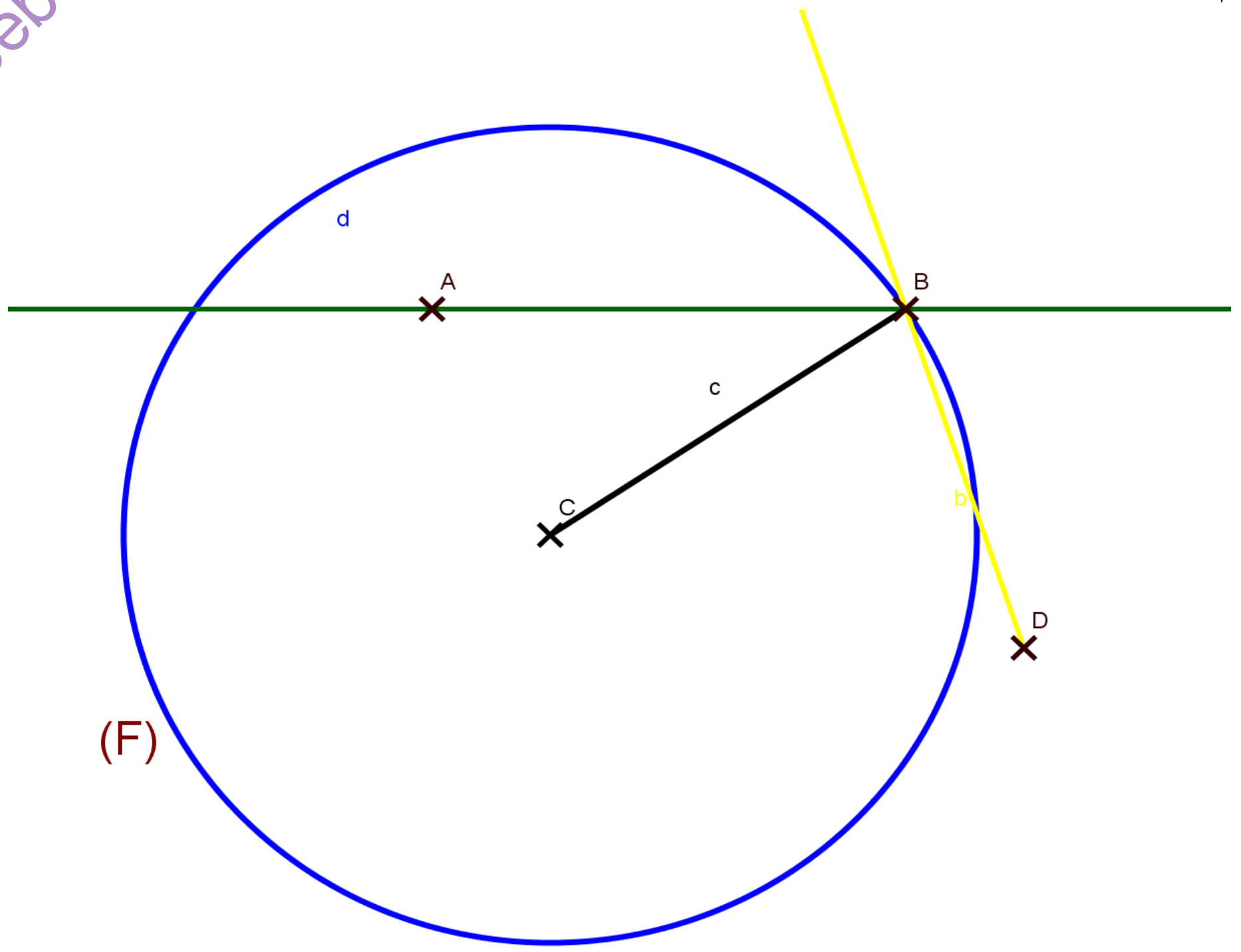	4	5
	2) **تكملة بأحد الرمزين ∈ أو ∉:** $C \notin (F)$, $A \notin [BC]$, $B \in (F)$, $D \in [DB)$	1	

(1+ منهجية التحرير+نظافة الورقة)

belhocine : https://prof27math.weebly.com